Document apprenant

L'Union Européenne
et
à la découverte de quelques Fromages français

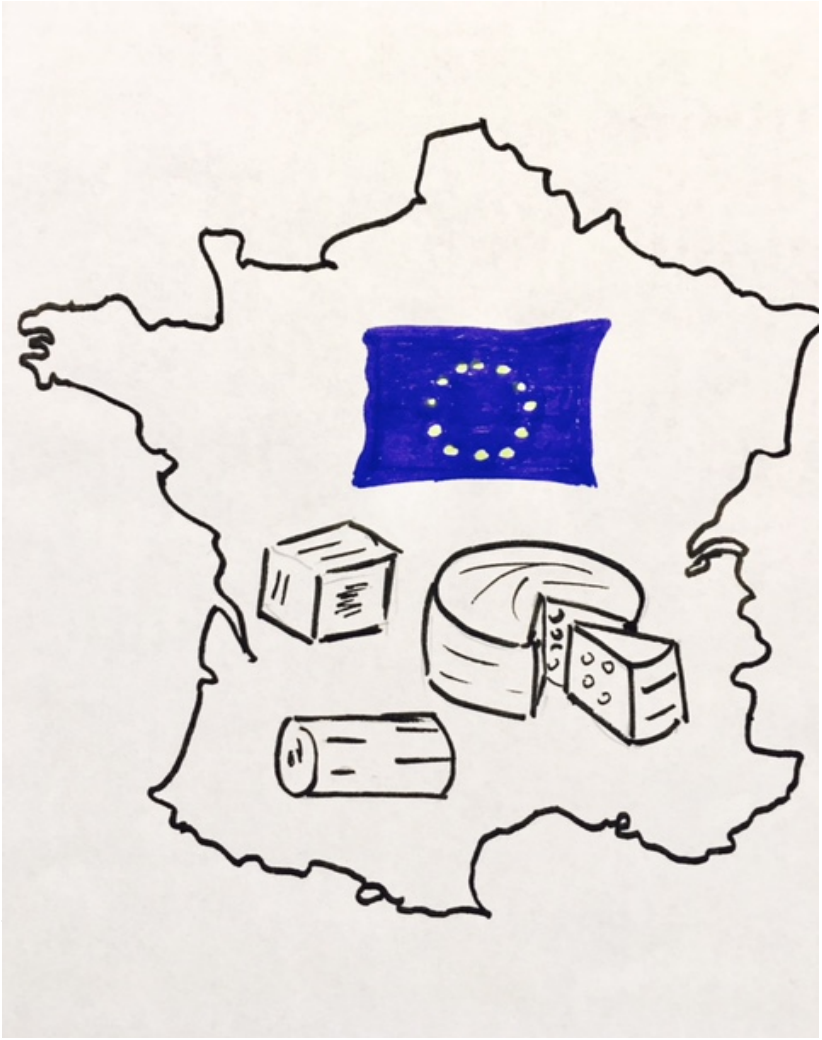

Copyright ©Emmanuelle Remy

Pour votre santé, évitez l'abus de sel, de gras et de sucre

I. Sensibilisation à l'Union européenne

Ecoutez la présentation du professeur avec le PowerPoint. Observez la numérotation sur le PowerPoint et lisez les questions ci-dessous.

1.1.) Que symbolisent les étoiles?

1.2) Pourquoi est-ce qu'on fonde l'Union européenne?

1.3) Combien y a-t-il d'habitants dans l'Union européenne?

1.4) Combien de pays font partie de l'Union européenne?

1.5) Quel est le jour de la célébration de la journée européenne?

1.6) Reconnaissez-vous l'extrait de musique qui a été choisi comme

l'hymne européen?

1.7) Comment s'appelle la monnaie européenne ?

1.8) Quand commence-t-on à utiliser la monnaie europénne dans la zone euro?

1.9) Dans la carte muette de la page 3, localisez et nommez six pays (ou plus) qui ont la monnaie européenne? Ecrivez les noms des pays. Basez vos observations sur la carte au tableau (Powerpoint). Utilisez la couleur vert.

Source de la carte muette
http://www.histgeo.ac-aix-marseille.fr/webphp/carte.php?num_car=1061&lang=fr
(carte géographique gratuite pour un usage non commercial)

Copyright ©Emmanuelle Remy

Pour votre santé, évitez l'abus de sel, de gras et de sucre

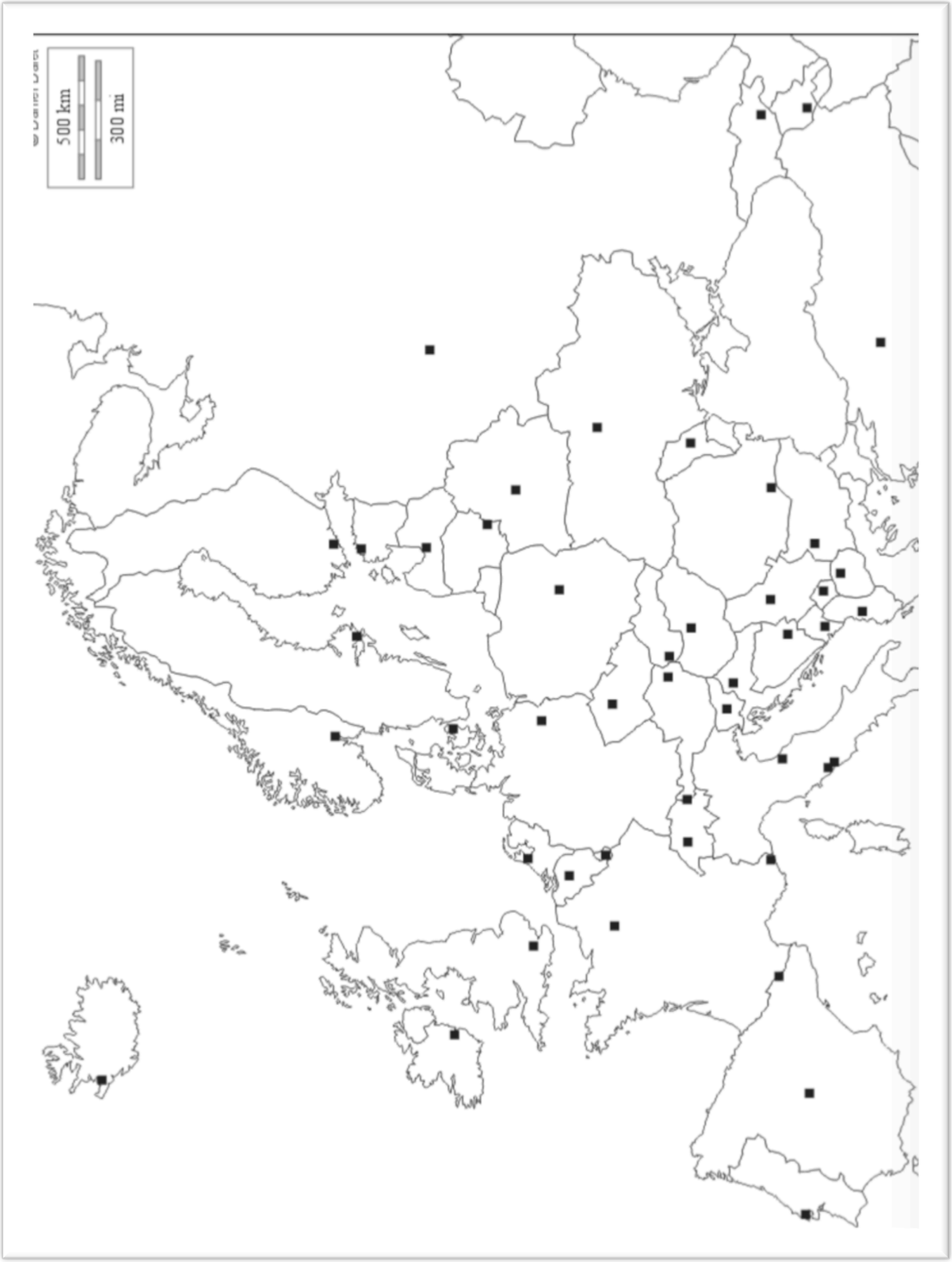
500 km
300 mi

1.10) Lisez la liste ci-dessous des pays qui font partie de l'Union europénne. Localisez et écrivez le nom de 5 à 7 autres pays sur la *Carte muette de l'Europe* à la page 3. Utilisez la couleur bleu. Si le pays utilise l'euro coloriez en vert le nom du pays.

Liste des États membres de l'UE avec l'année d'adhésion

L'Allemagne (1952)
L'Autriche (1995)
La Belgique (1952)
La Bulgarie (2007)
Chypre (2004)
La Croatie (2013)
Le Danemark (1973)
L'Espagne (1986)
L'Estonie (2004)
La Finlande (1995)
La France (1952)
La Grèce (1981)
La Hongrie (2004)
L'Irlande (1973)
L'Italie (1952)
La Lettonie (2004)
La Lituanie (2004)
Le Luxembourg (1952)
Malte (2004)
Les Pays-Bas (1952)
La Pologne (2004)
Le Portugal (1986)
La République tchèque (2004)
La Roumanie (2007)
Le Royaume-Uni (1973)
En 2016 Il y a eu un referendum pour Brexit:
les Anglais ont voté. Ils ont décidé de se retirer de l'Union Européenne.
La Slovaquie (2004)
La Slovénie (2004)
La Suède (1995)

1.11) Recherchez sur internet Jean Monnet, le général de Gaulle, Robert Shumann. Donnez deux éléments pour chaque personne.

1.12) Que permet traité de Maastricht pour l'Union européenne? En quelle année est-il signé? Où est Maastricht?

II. Les fromages en France

Ecoutez la présentation du professeur avec le PowerPoint. Observez la numérotation sur le PowerPoint et lisez les questions ci-dessous.

2.1. L' origine du mot fromage

Comment s'appelle le fromage en latin?

2.2 Les origines de sa fabrication

Ecoutez le professeur et complétez le paragraphe ci-dessous.

On _____ (1) l'époque exacte de la _____ (2) du fromage mais on la situe alors entre _____ (3) ans avant J.C. Cependant certaines traces remonteraient_____ (4).

_____(5) raconte qu'un _____ (6) arabe _____(7) mis du lait _____ (8) un conteneur _____(9) d'estomac d'un_____ (10). Le lait s'est alors _____ (11) de l'état _____(12) en état _____ (13): le lait _____ (14) et s'est _____(15) au contact de _____(16) et de la _____ (17) du _____ (18).

Lisez les affirmations et encerclez si c'est vrai ou faux

a) Le fromage est créé du temps des dinosaures. Vrai ou Faux
b) C'est un marchand italien qui crée le fromage intentionnellement. Vrai ou Faux
c) Le lait versé et au contact d'un sac fait à partir d'estomac d'animal s'est transformé. Vrai ou Faux
d) Les températures froides ont aussi joué un rôle. Vrai ou Faux

2.3. Imaginez,combien de fromages il y a en France ?

Copyright ©Emmanuelle Remy

Pour votre santé, évitez l'abus de sel, de gras et de sucre

2.4. Légendez les dessins ci-dessous avec le nom de l'animal.

_____ _____ _____

DEGUSTATION

A la découverte de quelques fromages français

Le Camembert / Le Gruyère / Le Roquefort/ Le Petit Basque / Le Chèvre/le brie

1. Observez les fromages français puis lisez la description de chaque fromage et nommez le fromage et écrivez-le dans la première colonne. Encerclez l'animal d'où le lait provient dans la colonne "origine du lait".

Le nom du fromage français	**La description du fromage**	**Origine du lait** *exemple* brebis X
	Il est cylindrique, long et blanc. C'est un fromage frais. Il vient de Tourraine.	Vache Brebis Chèvre
	Il est cylindrique et banchâtre (blanc-jaune). Il est à pâte dure. Il vient du sud-ouest à côté de l'Espagne.	Vache Brebis Chèvre
	Il est rectangle et jaunâtre* Il a des trous et à pâte dure. Il vient des montagnes, les Alpes	Vache Brebis Chèvre
	Il est rond et blanc. C'est un fromage à pâte molle fleurie Il vient de Normandie.	Vache Brebis Chèvre
	Il est de forme triangulaire et blanc. C'est à pâte molle. Il vient de la région de Brie	Vache Brebis Chèvre
	Il est triangulaire, blanc et bleu. C'est un fromage à pâte persillée Il vient des Causses.	Vache Brebis Chèvre

* blanc-jaune

Copyright ©Emmanuelle Remy

Pour votre santé, évitez l'abus de sel, de gras et de sucre

2. Localisez et écrivez le nom du fromage qui correspond à son lieu géographique de fabrication

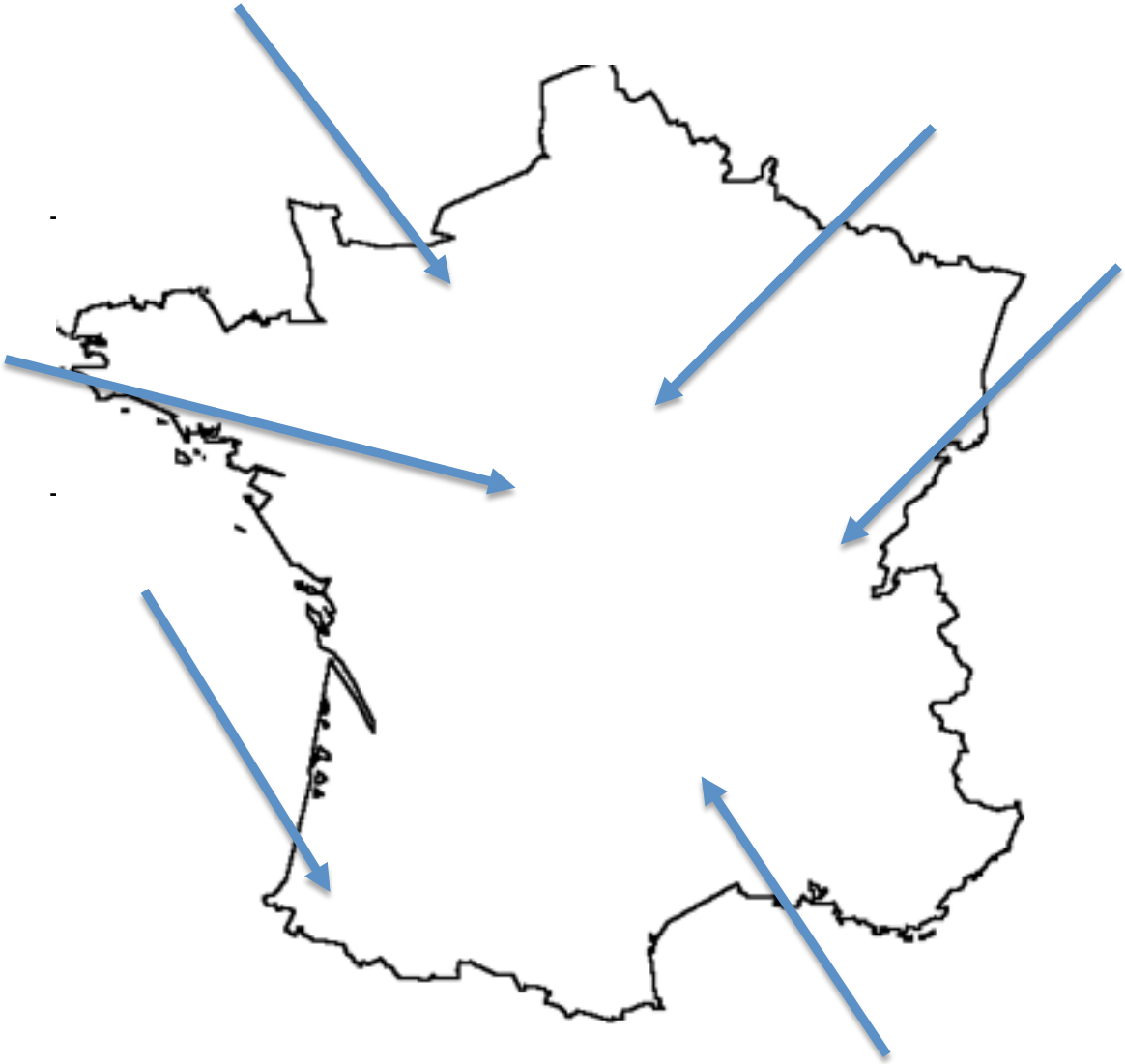

3. Comment couper les fromages?

Voilà différentes façons de couper les fromages en fonction de leur forme.



Les fromages dessinés ci-dessus

I. Un Caprice des dieux une sorte de brie de forme ovale
II. Un Brie
III. Un Cantal
IV. Un Valençais (Un chèvre frais en forme de pyramide)
V. Un Camembert

L'objectif de savoir découper un fromage est de permettre à tout le monde d'y goûter et donc d'éviter de laisser au dernier juste la "croute".

Copyright ©Emmanuelle Remy

Pour votre santé, évitez l'abus de sel, de gras et de sucre